الجـمهـورية الجـزائـريـة الـديمـقراطـيـة الشـعـبـيـة

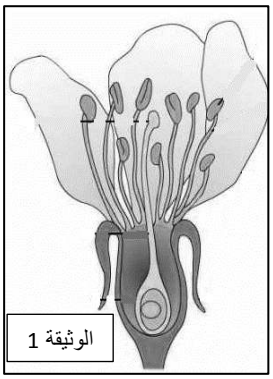
متوسطة محمد بن أحمد الحباك – تلمسان – **السنة الدراسية: 2020–2021**

فرض الفصل الأول في مادة علوم الطبيعة و الحياة لمستوى الثانية متوسط (المدة: 45 د)

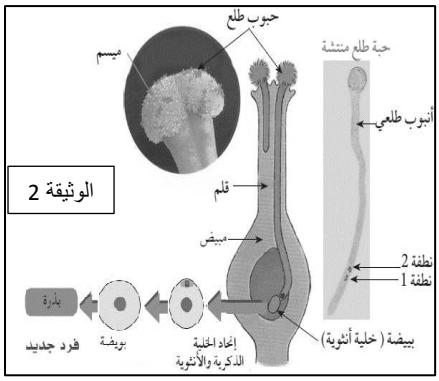
اللقب:..... الإسم:..... القسم:.....الفوج:.....

الوضعية الأولى:(10 نقاط)

أثناء تجولك في حديقة المدرسة مع صديقك أسامة من قسم الأولى متوسط وجدتما زهرة على الأرض فأخذها أسامة و لكنه لم يتمكن من معرفة مكوناتها.



الوثيقة 1



الوثيقة 2

1- باعتبارك تلميذ في السنة الثانية متوسط قدم لأسامة مكونات الزهرة الكاملة.

.....

.....

2-اشرح لأسامة مراحل التكاثر الجنسي عند النباتات ذات الأزهار. .....

.....

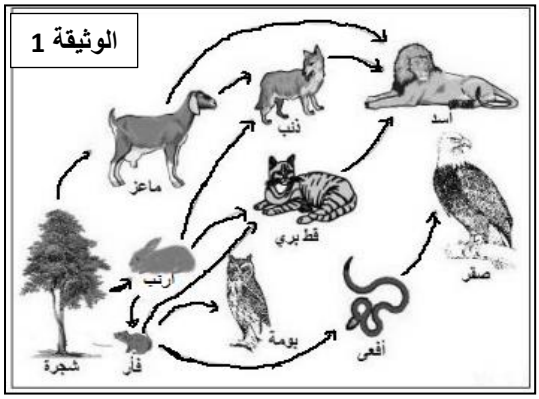
.....

.....

3- ما هي الوحدة الأساسية لبناء الكائنات الحية ؟ .....

الوضعية الثانية: (10 نقاط)

لمساعدة أختك على فهم الترابط الموجود بين الكائنات الحية في الوسط الحي قدمت لها مجموعة من الصور الموضحة بالوثيقة 1:



الوثيقة 1

1. حدّد نوع هذا الوسط الحي . .....
2. شكّل سلسلة غذائية تنتهي بمستهلك رابع مع تحديد مستوياتها (عناصرها)

.....

.....

3. باستعمال الوثيقة 2:

أ- أحسب الكتلة الحية المتنقلة للمستهلك الاول علما أن كمية وزن المنتج هو 250 Kg.

10 Kg غذاء ← 1 Kg كتلة حية

الوثيقة 2

.....

.....

ب- عند انتقال الكتلة الحية من مستوى غذائي لآخر تتناقص علل ذلك.

.....

.....

ت- ما هي عواقب اختفاء حلقة من حلقات السلسلة الغذائية؟

.....

« الحياة هي عبارة عن حل للمشاكل. فإما أن تهزمك المشاكل أو تجعل منك شخصا عظيما. الأمر متوقف عليك »