المستوى:الأول ابتدائي(1AP) جانفي 2021

الفرض الثاني للفصل الأول في الرياضيات

الاسم:..... **اللقب:** .....

التمرين 1: أُلَوِّن البِطَاقَات التّي مَجمُوعُهُمَا يُسَاوِي 8.

6+3 | 5 + 3 | 7 + 1 | 1 + 9

4 + 4 | 8 + 0

التمرين 2: أُكْمِلُ الشَّريط العَدَدِي.

. .	. .	. .	15	. .	. .	12

التمرين 3: أَكْتُبُ العَدَدَ المُتَبَقِّي.

5 - 2 =.....

10 - 6 =.....

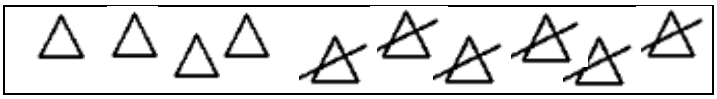

9 - 1 =.....

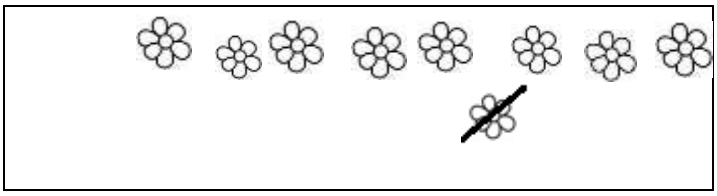

<u>التمرين 4:</u> أَجِدُ العَدَدَ الذِّي يَسْبَقُ والعَدَدَ الذِّي يَلِي.

.... ← 7 ← .... ← 5 ← .... ← 10 ← ....

<u>المشكلة:</u>

- لَدَى إيمان 7 بِطَاقَات اِسْتِحْسَانٍ، زَادَتْهَا مُعَلِمَتها 5 بِطَاقَات أُخْرَى.
- كَمْ بِطَاقَةَ اِسْتِحْسَانِ صَارَت عِنْدَ إيمان؟

• صَار عِنْدَ إيمان..... بِطَاقَاتٍ.

.... = ...

التصحيح

التمرين 1: أُلَوِّن البِطَاقَات التّي مَجمُوعُهُمَا يُسَاوِي 8 (2.5ن)

6+3 | 5 + 3 | 7 + 1 | 1 + 9

4 + 4 | 8 + 0

18	17	16	15	14	13	12

التمرين 2: أُكْمِلُ الشَّريط العَدَدِي.(2.5ن)

التمرين 3: أَكْتُبُ العَدَدَ المُتَبَقِّي.(1.5ن)

5 - 2 = 3

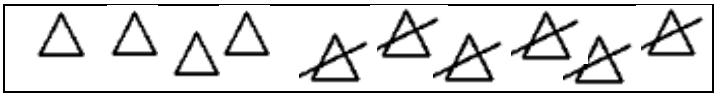

10 - 6 =4

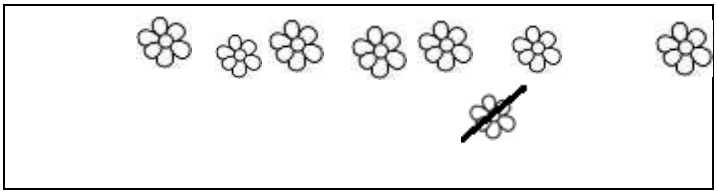

9 - 1 = 8

التمرين 4: أَجِدُ العَدَدَ الذِّي يَسْبَقُ والعَدَدَ الذِّي يَلِي.(1.5ن)

6 ← 7 ← 8 | 4 ← 5 ← 6 | 9 ← 10 ← 11

المشكلة: (2ن)

- لَدَى ايمَان 7 بِطَاقَات اِسْتِحْسَانٍ، زَادَتْهَا مُعَلِمَتها 5 بِطَاقَات أُخْرَى.
- كَمْ بِطَاقَةَ اِسْتِحْسَانِ صَارَت عِنْدَ ايمان؟

- صَارَت عِنْدَ ايمان12 بِطَاقَاتٍ.

7	+	5	=	12